3e année

Carnet de découvertes

de : _____

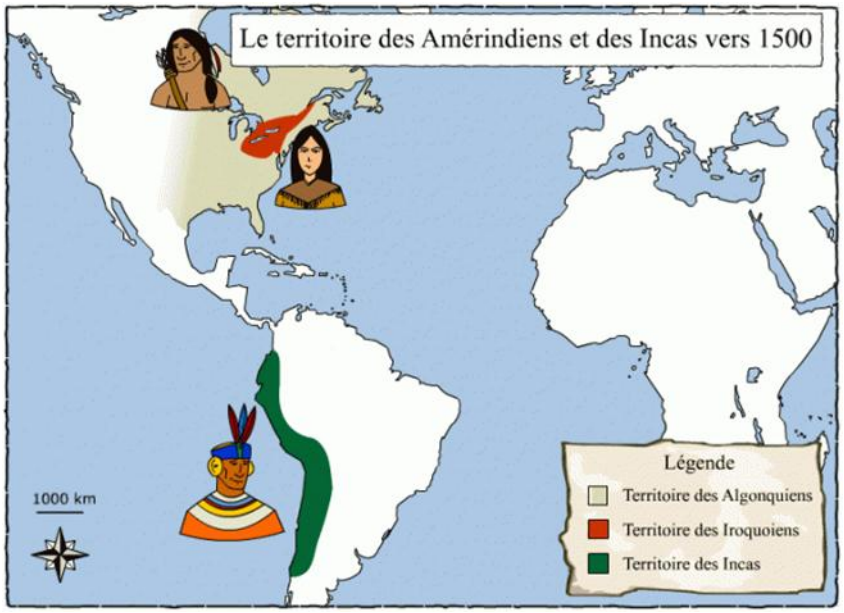

Les Algonquiens et les Incas étaient-ils plutôt semblables ou différents des Iroquoiens vers 1500?





Document réalisé par Chantal Déry, UQO et collaborateurs

TERRITOIRE

1. Lis les textes suivants et souligne les mots importants dans chaque texte.

Les Iroquoiens



Source : Vidéanthrop

Les Iroquoiens sont établis le long du fleuve Saint-Laurent, dans la région des Basses-Terres du Saint-Laurent et des Grands Lacs. Le relief plat et le sol fertile de ce territoire facilitent l'agriculture. Il y pousse une forêt mixte composée de feuillus et de conifères. Une grande variété d'animaux (castor, ours, poisson, chevreuil, loup, etc.) y vit. Il y a aussi plusieurs lacs et rivières. Le climat y est chaud en été et froid en hiver, il y a beaucoup de neige.

Les Algonquiens

Source : récit Bernard Duchesne

Les Algonquiens vivent près des nombreux lacs et cours d'eau que l'on retrouve sur les terres du Bouclier canadien. De nombreux animaux (orignal, caribou, ours, lièvre, castor, écureuil, raton laveur, perdrix, poisson, etc.) habitent le territoire. Les Algonquiens se déplacent souvent afin de trouver les meilleurs endroits où les chasser. La végétation du territoire est variée : au sud, où il fait plus chaud, c'est la forêt mixte et vers le nord il n'y a que des conifères. Le climat est variable avec des étés courts et des hivers froids et longs.

Les Incas

Source : Gazapo Feral / Flickr

Les Incas vivent sur un territoire qui longe l'océan Pacifique à l'ouest et la chaine de montagnes cordillère des Andes à l'est. Sur leur territoire, il y a une grande variété de paysages et de climats. Le territoire est plutôt difficile à exploiter, mais il comporte des richesses comme de l'or. Il y vit une faune variées (singes, insectes, serpents, perroquets, lamas, alpagas, etc.).

2. Compare les sociétés en plaçant les caractéristiques du territoire de chacune dans les diagrammes.

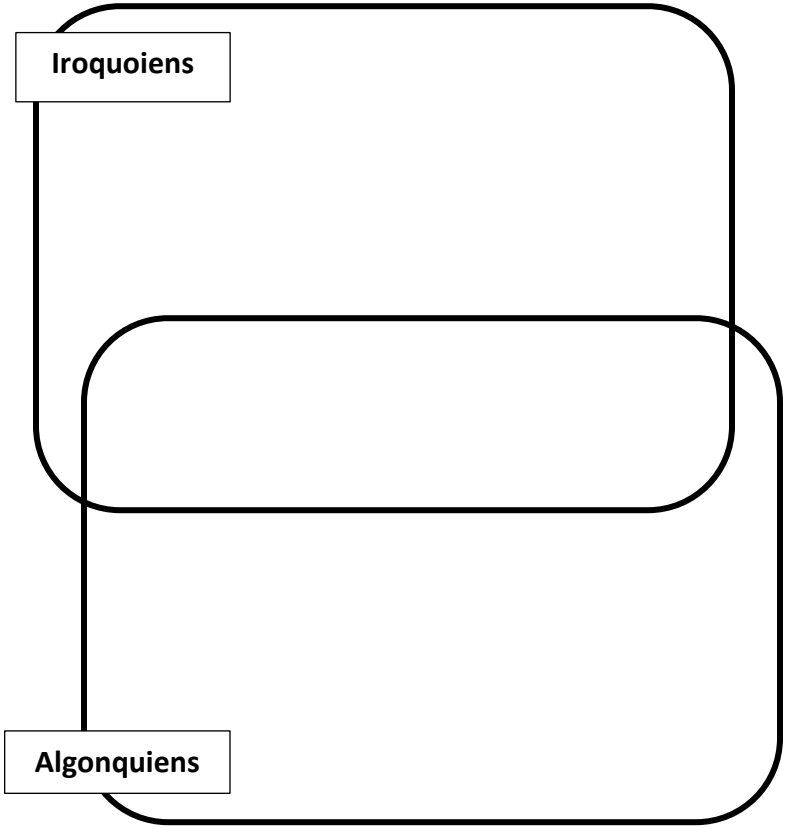

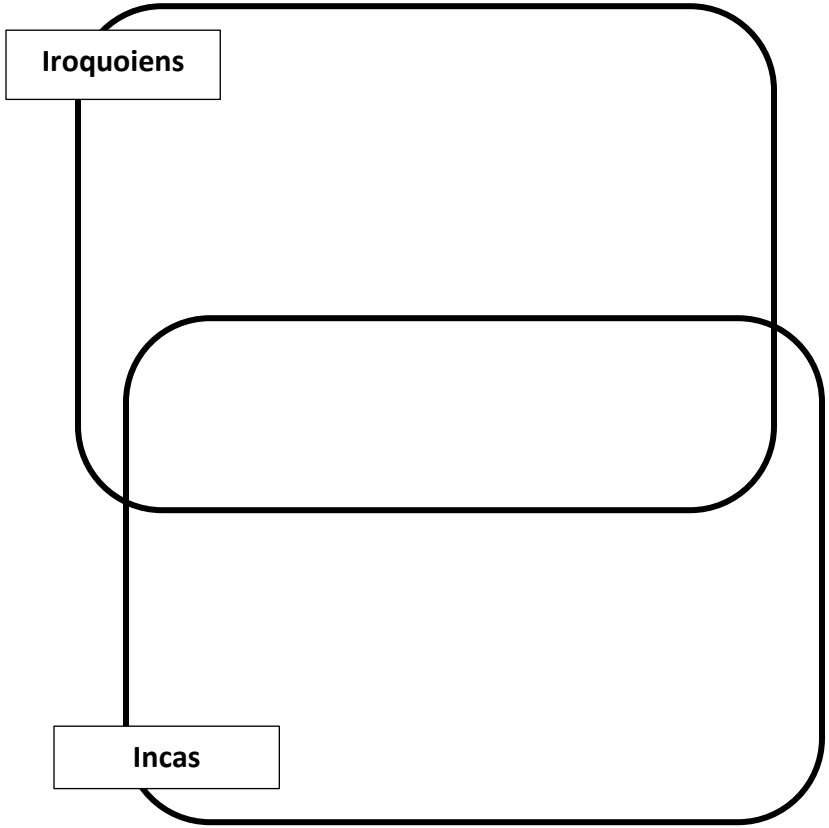

3. Est-ce que les Iroquoiens et les Algonquiens habitaient des territoires semblables ou différents? Pourquoi?

4. Est-ce que les Iroquoiens et les Incas habitaient des territoires semblables ou différents? Pourquoi?

Document réalisé par Chantal Déry, UQO et collaborateurs

CULTURE ET POPULATION

1. Lis les textes suivants et souligne les mots importants dans chaque texte.

Les Iroquoiens.

Vers 1500, on estime la population iroquoienne à 100 000 habitants.

Source : Diane Boily / Site Édutic-UQTR, AKI : Sociétés et Territoires autochtones

Les Iroquoiens sont sédentaires et habitent dans des maisons longues dans lesquelles 20 à 40 personnes peuvent vivre.
Ils vivent principalement de l'agriculture.
Les Iroquoiens sont animistes, ils croient aux esprits.

Les Algonquiens

Vers 1500, environ 70 000 habitants composent la population algonquienne.

Source : récit Bernard Duchesne

Les Algonquiens sont nomades et habitent dans des wigwams, des abris légers qui sont faciles à monter, à démonter et à transporter.
Un wigwam peut abriter 5 à 10 personnes.
Les Algonquiens vivent principalement de la chasse, de la pêche et de la cueillette. Ils se nourrissent de poissons.
Les Algonquiens sont animistes, ils croient aux esprits.

Les Incas

Vers 1500, la population totale des Incas est estimée à 8 millions de personnes.



Source : Bernard Duchesne

Les Incas sont sédentaires et habitent de solides maisons formées de quatre murs de brique. Une seule famille vit dans chaque maison.
Les Incas sont aussi des agriculteurs.
Les Incas construisent des temples garnis d'or pour vénérer le dieu soleil.

2. <u>Compare les sociétés en plaçant les caractéristiques de la culture et de la population de chacune dans les diagrammes.</u>

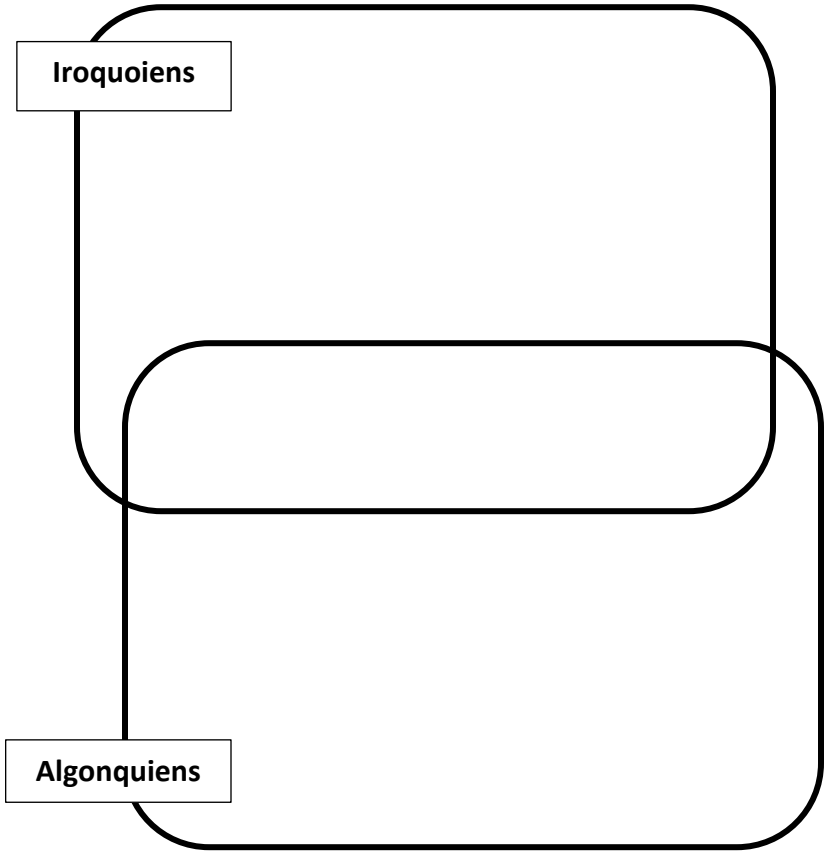

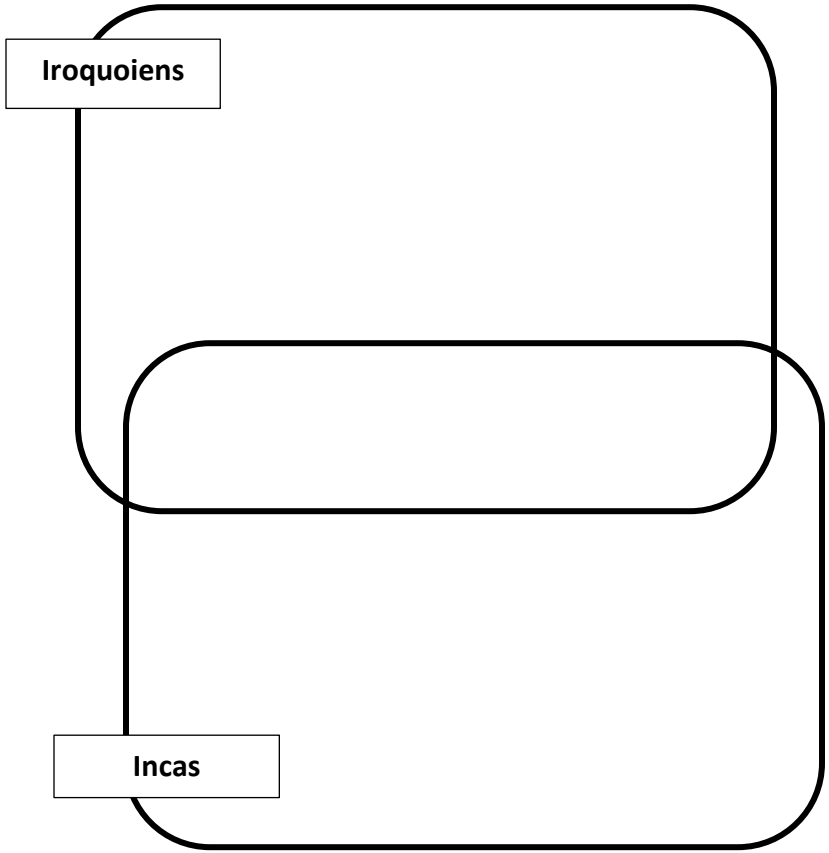

3. Est-ce que les Iroquoiens et les Algonquiens étaient plus semblables ou différents? Pourquoi?

4. Est-ce que les Iroquoiens et les Incas étaient plus semblables ou différents? Pourquoi?

ÉCONOMIE

1. Lis les textes suivants et souligne les mots importants dans chaque texte.

Les Iroquoiens

Source : Vidéanthrop

La principale activité économique des Iroquoiens est l'agriculture. Les sols fertiles permettent la culture du maïs, de la courge et du haricot : on les appelle les trois sœurs, car chacune d'elles s'aide à pousser. Pour compléter leur alimentation ils font aussi de la chasse, de la pêche et de la cueillette. Avec les peaux des animaux, ils se confectionnent des vêtements en fourrures et en cuir. Ils font du troc entre eux et aussi avec les Algonquiens.

Les Algonquiens



Source : récit Bernard Duchesne

Les principales activités économiques des Algonquiens sont la chasse, la pêche et la cueillette. Les animaux qu'ils vont chasser vont leur fournir de la nourriture et ils vont utiliser leur peau pour fabriquer des vêtements de cuir et de fourrure. Ils ne font pas d'agriculture car ils sont nomades. Ils font du troc entre eux et avec les Iroquoiens (fourrures, peaux, poissons contre maïs, courges, fèves, etc.).

Les Incas



Source : Bernard Duchesne

La principale activité économique des Incas est l'agriculture. Pour pouvoir cultiver en montagne, ils construisent des petits murs pour former des terrasses. Ils cultivent des pommes de terre, du maïs, des haricots, des courges, des céréales, des piments, des cacahuètes, des tomates, des avocats, du coton. Ils font aussi l'élevage de lamas et d'alpagas pour le tissage de la laine (vêtements). Ils font du troc.

2. Compare les sociétés en plaçant les caractéristiques de l'économie de chacune dans les diagrammes.

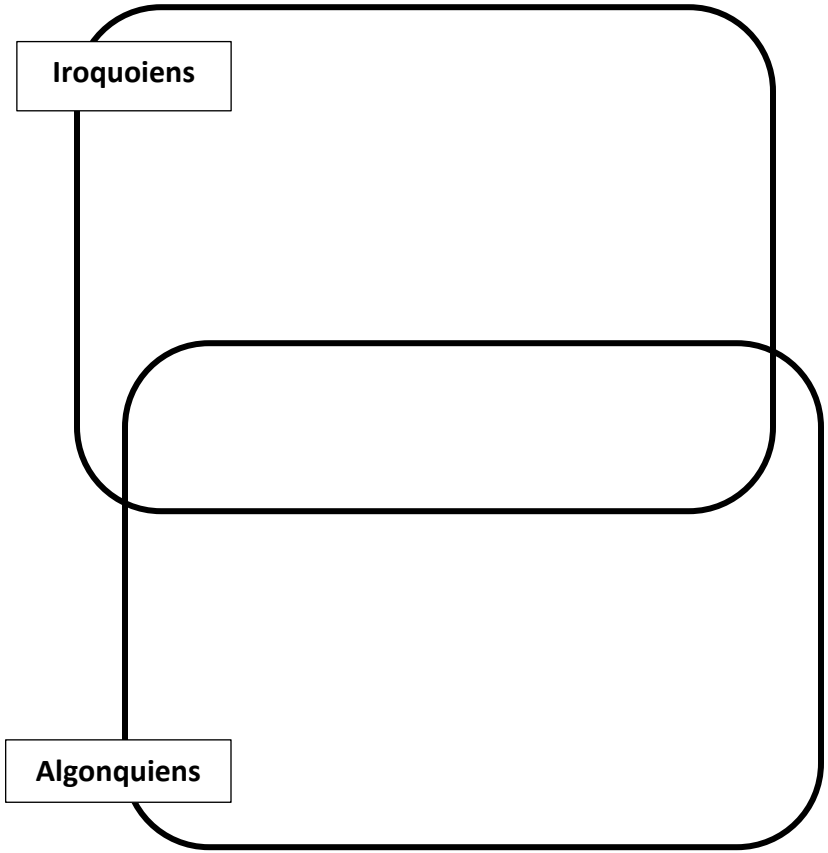

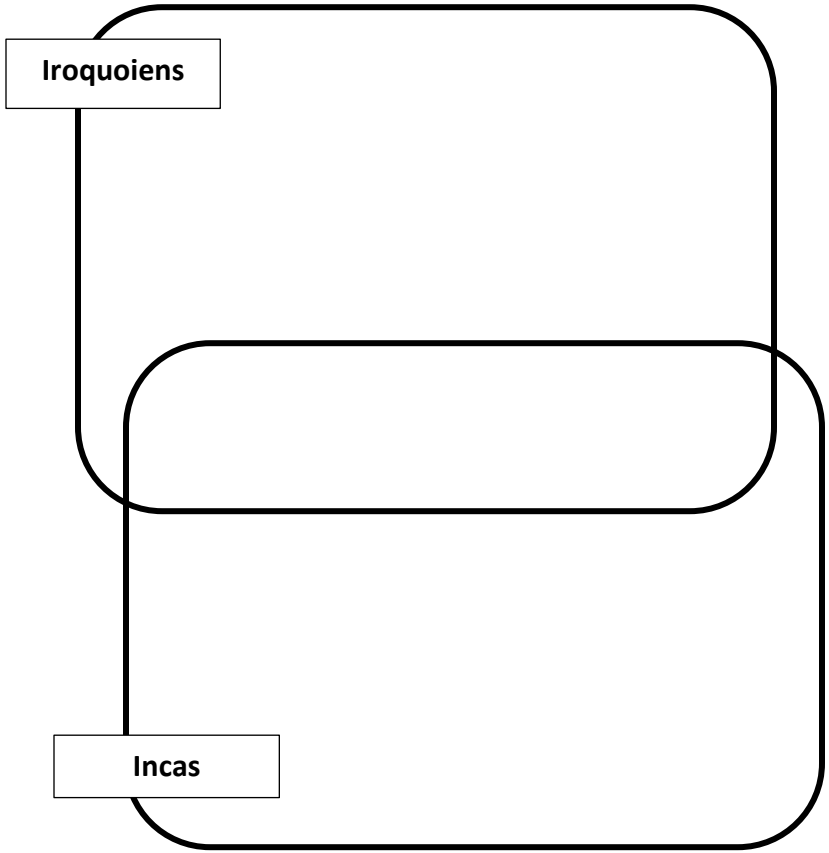

3. Est-ce que les Iroquoiens et les Algonquiens étaient plus semblables ou différents? Pourquoi?

4. Est-ce que les Iroquoiens et les Incas étaient plus semblables ou différents? Pourquoi?

Document réalisé par Chantal Déry, UQO et collaborateurs

POLITIQUE

1. <u>Lis les textes suivants et souligne les mots importants dans chaque texte.</u>

La société iroquoienne

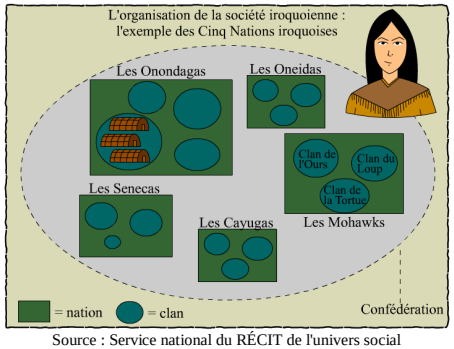

Source : Service national du RÉCIT de l'univers social

Chez les Iroquoiens les décisions politiques se prennent par consensus (accord du plus grand nombre de personne). La société iroquoienne est divisée en nation, chaque nation est divisée en clans et chaque clan est dirigé par un chef civil.
Les femmes jouent un rôle important. Les enfants vivent dans la famille de leur mère (on dit donc que la société iroquoienne est matrilinéaire). La grand-mère est la responsable du clan : elle nomme le chef civil (qui est un homme) pour les affaires courantes et distribue les rôles et responsabilités de chacun.

La société algonquienne

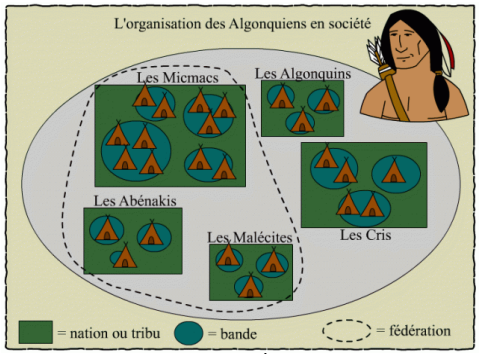

Source : Service national du RÉCIT de l'univers social

Chez les Algonquiens, chaque nation est divisée en plusieurs clans, qui eux, sont composés de quelques bandes, qui sont des groupes de 35 à 75 personnes de 2 ou 3 familles qui ont des ancêtres communs. Chaque habitant appartient au clan de son père, c'est une société patrilinéaire. Chaque clan possède un chef qui doit s'assurer de l'abondance de la nourriture. Le chef consulte les membres de la nation et doit obtenir un consensus avant toute décision.

La société inca

Source : Bernard Duchesne

La société inca est un empire : elle regroupe plusieurs peuples sous un même gouvernement. Le Sapa Inca est l'empereur ou le roi qui dirige la société : il a le pouvoir absolu (aucune consultation), il doit faire régner l'ordre et la justice, distribuer les biens. La société inca est une société très hiérarchisée, en dessous du Sapa Inca se trouve les 4 gouverneurs, ensuite les chefs des ayllus (des regroupements de familles), et enfin le peuple. La société inca est une société patrilinéaire.

Document réalisé par Chantal Déry, UQO et collaborateurs

2. Compare les sociétés en plaçant les caractéristiques de la politique de chacune dans les diagrammes.

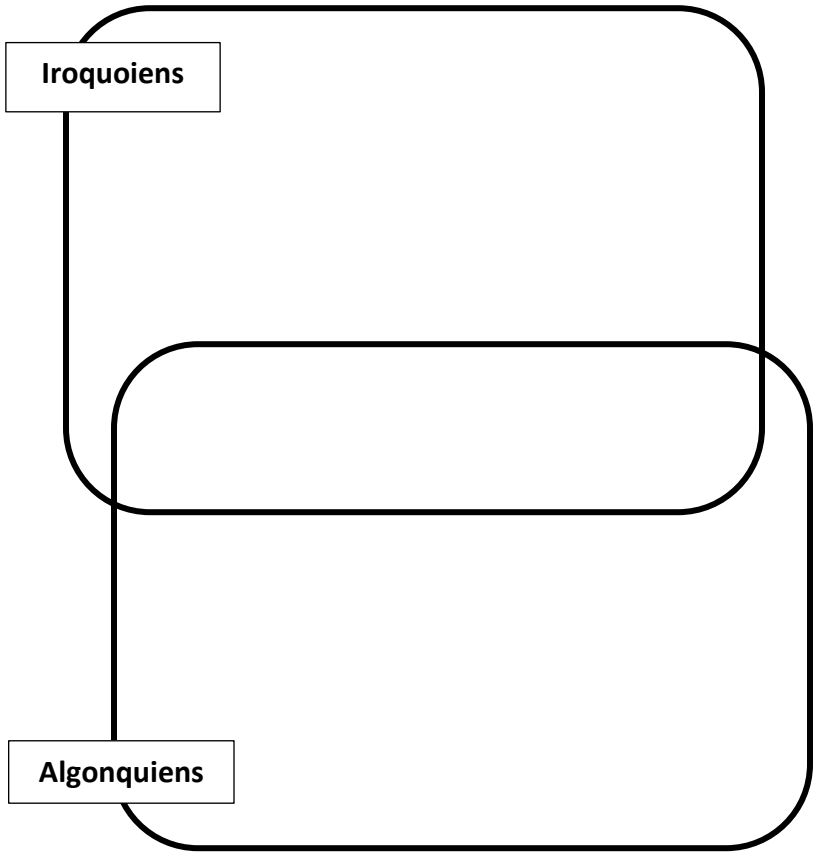

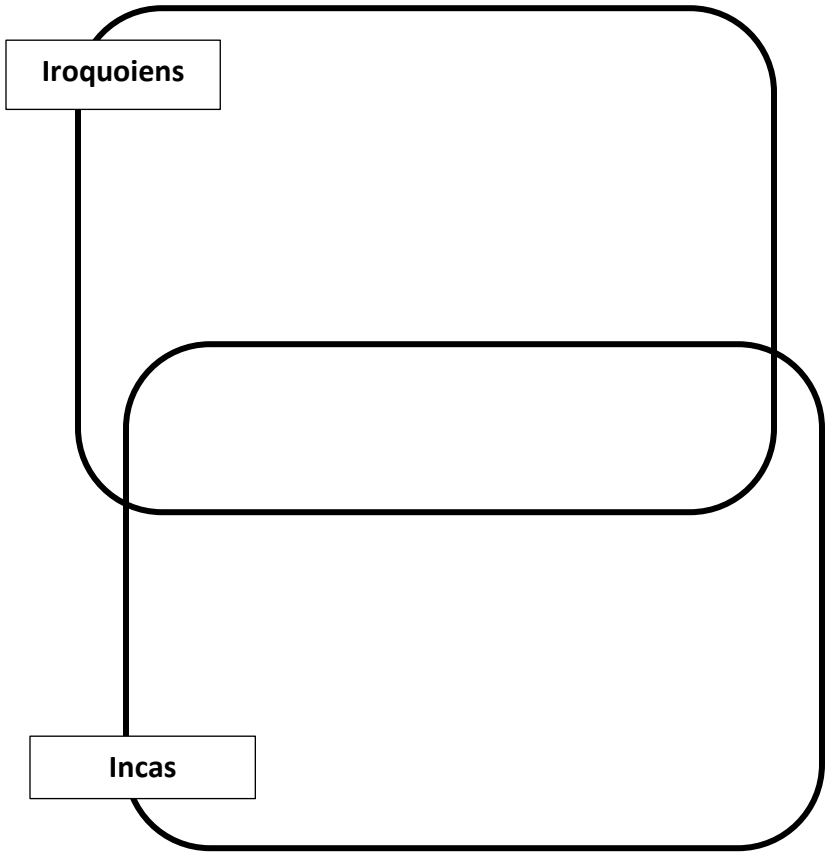

3. Est-ce que les Iroquoiens et les Algonquiens étaient plus semblables ou différents? Pourquoi?

4. Est-ce que les Iroquoiens et les Incas étaient plus semblables ou différents? Pourquoi?

Document réalisé par Chantal Déry, UQO et collaborateurs

L'EXPLORATEUR SE PRONONCE…

Maintenant que tu as recueilli toutes les informations importantes, tu dois faire un choix. Attention, tu dois réfléchir à ce choix. Tu dois penser au **territoire**, à la **culture**, à la **population**, à la **politique** et à l'**économie**.

LES ALGONQUIENS ÉTAIENT-ILS PLUTÔT SEMBLABLES OU DIFFÉRENTS DES IROQUOIENS VERS 1500?

a) **Fais ton choix : ☐ Semblables ou ☐ Différents.**

b) **Justifie ton choix en identifiant des faits qui démontrent les ressemblances ou les différences pour au moins 3 des 4 volets du tableau.**

Volet de la société	ALGONQUIENS	IROQUOIENS
Territoire		
Culture et population		
Économie		
Politique		

c) **Prépare-toi à présenter ta réponse à la classe.**

LES INCAS ÉTAIENT-ILS PLUTÔT SEMBLABLES OU DIFFÉRENTS DES IROQUOIENS VERS 1500?

a) **Fais ton choix : ☐ Semblables ou ☐ Différents.**

b) **Justifie ton choix en identifiant des faits qui démontrent les ressemblances ou les différences pour au moins 3 des 4 volets du tableau.**

Volet de la société	INCAS	IROQUOIENS
Territoire		
Culture et population		
Économie		
Politique		

a) **Prépare-toi à présenter ta réponse à la classe.**